الإمارات العربية المتحدة
وزارة التربية والتعليم

مادة الدراسات الاجتماعية والتربية الوطنية

الصف

3

الاختبار الأول للمادة -الفصل الثالث

اسم المدرسة : .....

اسم الطالب :.....

الصف والشعبة : الثالث A - B

التعليمات :

I. سجل بياناتك قبل البدء في الاختبار
II. أكتب بقلم الرصاص
III. تتضمن ورقة الأسئلة (....) أسئلة ( ) فقرة .
IV. اقرأ وأجب عن الأسئلة كلها بدقة

التاريخ : 2018/ 5 /.....

20 درجة

©

السؤال رقم واحد : ضع دائرة حول رمز الإجابة الصحيحة فيما يلي :

1- هو حالة الجو خلال فترة زمنية قصيرة :

A- الطقس

B- المناخ

C- الرياح

D- الرطوبة

2- هو حالة الجو خلال فترة زمنية طويلة :

A- الطقس

B- المناخ

C- الرياح

D- الرطوبة

3-تحرك أو انتقال الكتل الهوائية في الاتجاه الأفقي من مكان إلى آخر:

A- الطقس

B- المناخ

C- الرياح

D- الرطوبة

4-هو هي كمية بخار الماء الموجود في الهواء :

A- الطقس

B- المناخ

C- الرياح

D- الرطوبة

5-يتجنب مخاطر الضباب والأمطار الغزيرة هو :

A- الطبيب

B- السائق

C- المزارع

D- الصياد

6-تسقط الأمطار في دولة لإمارات في فصل :

A- الصيف B- الربيع c- الشتاء D- الخريف

السؤال الثاني : ضع دائرة حول الصورة التي تحمل المعنى الموجود في الفقاعة :

الصيف 7

الشتاء 8

الربيع 9

الخريف 10

جو غائم جزئي 11

السؤال الثالث : ضع إشارة (√)أمام العبارة الصحيحة وإشارة (x) أمام الغير صحيحة :

12- ( ) تقع دولة الإمارات ضمن المنطقة المدارية

13- ( ) النبات الطبيعي هو عبارة عن نوع واحد هو النبات المعمر .

14- ( ) السدر والغاف من النبات المعمر .

15- ( ) موسم ظهور النبات الحولي بعد سقوط المطر .

16- ( ) تستخدم النباتات الصحراوية العلاج .

17- ( ) تنتشر الغابات الاستوائية في دولة الإمارات .

18- ( ) التكنولوجيا كلمة يونانية تعني حرفة أو مهارة .

19- ( ) التكنولوجيا تزيد الأمور تعقيد وتؤدي إلى صعوبة التنقل .

20- ( ) من أنواع التكنولوجيا الهواتف الذكية .

21- ( ) شبكة نقل ومواصلات عالمية هي الانترنت .

22-( ) جيتكس معرض متخصص يعرض أحدث ما توصلت له التكنولوجيا .

السؤال الرابع : أربط بين الصورة والكلمة المناسبة فيما يتعلق بالعوامل المؤثرة في المناخ
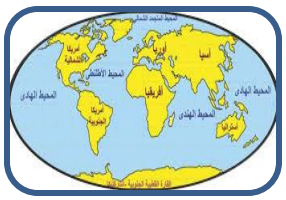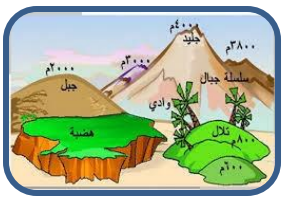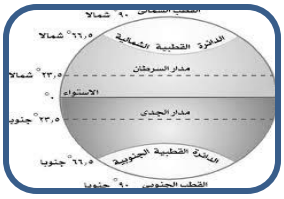
دوائر العرض	توزيع اليابس والماء	التضاريس